آزمون ریاضی کلاس سوم

نام و نام خانوادگی : ....　　　　　تاریخ :

مدرسه :　　　　　شعبه ی کلاس : ۳

۱ – عزیزم الگوهای زیر را ادامه بده .

۱۰۰ , ۲۰۰ , ۳۰۰ ,۴۰۰ , ۵۰۰ , ۶۰۰ , ۷۰۰ , ... , ... , ... , ...

۱۰۰۰ , ۱۵۰۰ , ۲۰۰۰ , ۲۵۰۰ , ۳۰۰۰ , ۳۵۰۰ , ... , ... , ... , ...

۲ – گلم اعداد زیر را بارقم و یا با حروف بنویس.

شش هزار و دویست و نوزده
....

سه هزار و چهارصد
....

۱۴۸۶
....

۷۰۰۵
....

۳– پسرخوبم عدد هرقسمت را نوشته و دو عدد را با هم مقایسه کن.

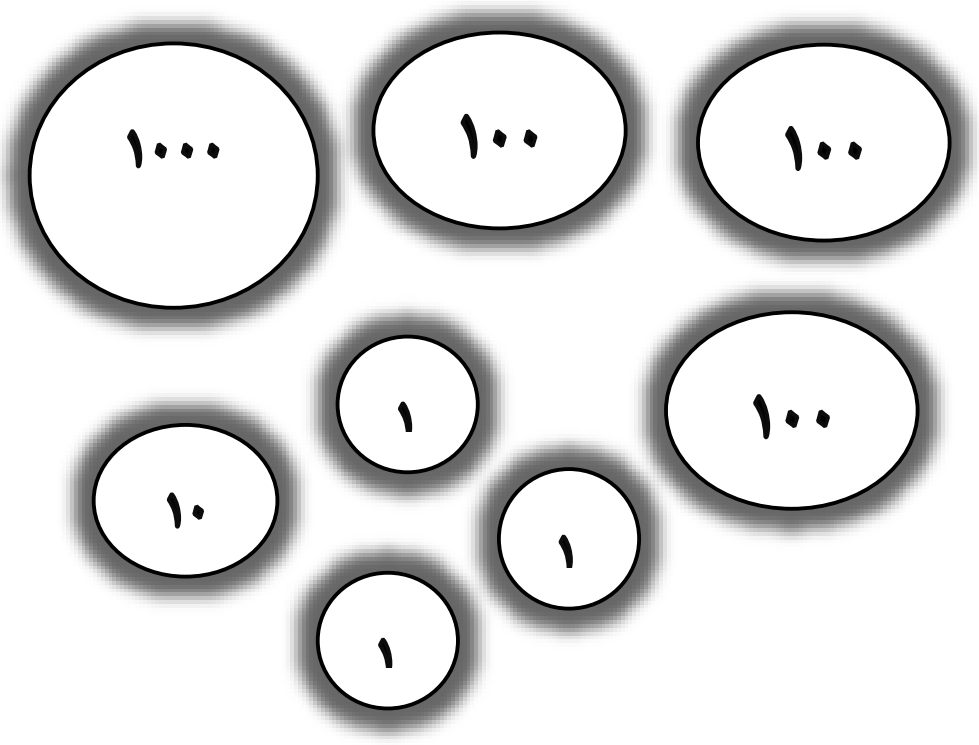

. ...　☐　...........

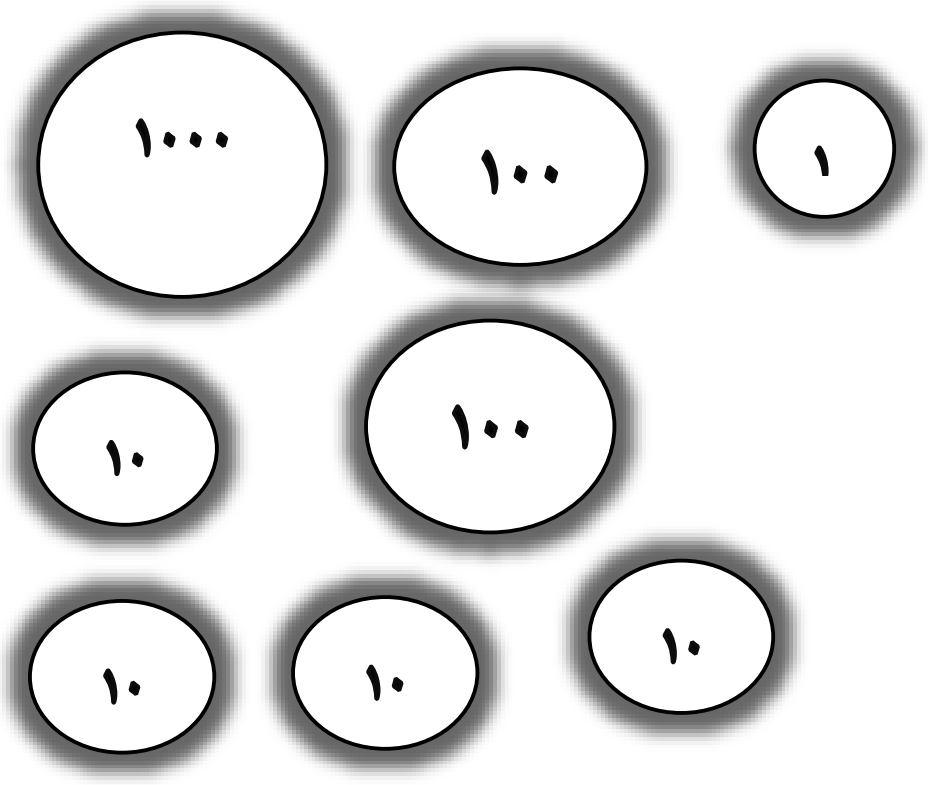



....　☐　....... ...



عزیزم به سوالات زیر پاسخ بده ویا جاهای خالی را باعبارت مناسب کامل کن.

۴- عدد ۷۳۴۰ یعنی .... یکی، .... ده تایی ، .... صدتایی و .... هزارتایی

۵- عدد .... یعنی ۲ یکی ، ۵ ده تایی ، ۹ صدتایی و ۱ هزارتایی

۶- ۲۰۰ تومان چند ریال است ؟ ....

۷- ۸۰۰۰ ریال چند تومان است ؟ ....

۸- ۱۴۲ سانتی متر یعنی .... متر و .... سانتی متر.

۹- پسر خوبم تمام عددهای سه رقمی را بنویس که رقم صدگان آن ها ۴ ، رقم دهگان آن ها ۵ یا ۱ و رقم یکان آن ها ۰ یا ۸ باشد.

....

....

....

....

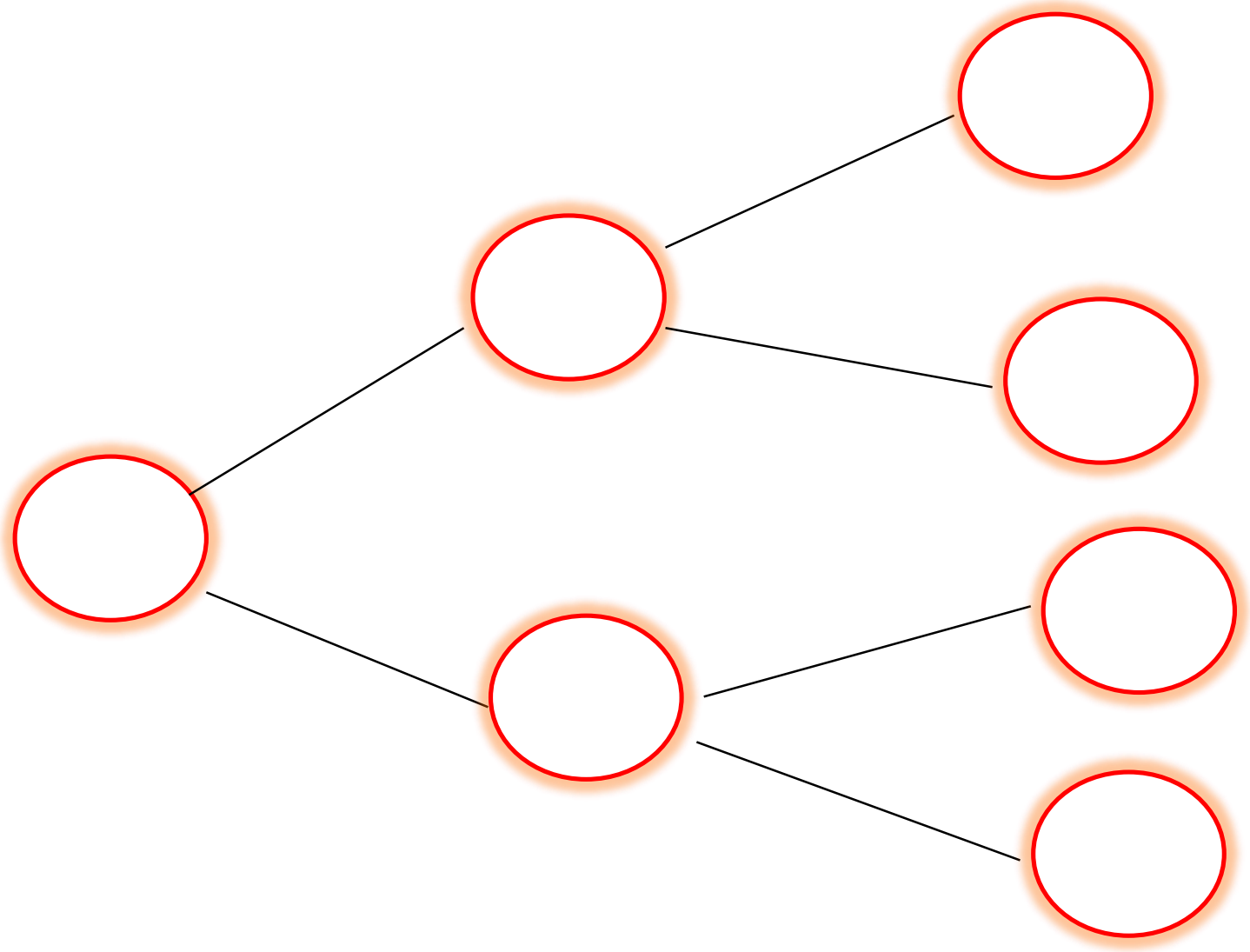

دانش آموزان عزیزم

موفق و سربلند باشید